ЗАДАЧИ С ЧИСЛАМИ В ПРЕДЕЛАХ 999

1. Реши задачу.

   Мама купила скатерть за 550 рублей, набор чашек за 252 рубля и набор чайных ложек за 146 рублей. Сколько денег потратила мама?

2. Реши задачу.

   Таня собирает пазл, состоящий из 960 деталей. Она уже поставила на место 531 деталь. На сколько количество деталей, которые она поставила на место, больше количества оставшихся деталей?



ЗАДАЧИ С ЧИСЛАМИ В ПРЕДЕЛАХ 999

3. Реши задачу.

В собрании сочинений А. С. Пушкина в основной раздел включено 438 стихотворений. В раздел ранних и незавершённых стихотворений включено на 93 стихотворения меньше. Сколько всего стихотворений включено в собрание сочинений поэта?



4. Реши задачу.

В начале года в школу поступило 956 новых учебников, из них 349 для начальной школы, 528 для средней школы. Сколько новых учебников поступило для старшей школы?

ЗАДАЧИ С ЧИСЛАМИ В ПРЕДЕЛАХ 999

5. Реши задачу.

В люстре 6 лампочек. Одна энергосберегающая лампа стоит 117 рублей. Сколько денег надо потратить, чтобы купить все лампочки для люстры?

6. Реши задачу.

Строители заказали 3 поддона кирпичей. На каждом поддоне находится 280 кирпичей. Сколько всего кирпичей привезут строителям?

7. Реши задачу.

Сколько картонных коробок понадобится, чтобы упаковать 954 кружки, если в одну коробку умещается 6 кружек?

ЗАДАЧИ С ЧИСЛАМИ В ПРЕДЕЛАХ 999

8. Реши задачу.

В словаре, помещённом в конце 1-й части учебника английского языка, на 175 слов меньше, чем в словаре, помещённом во 2-й части этого же учебника. Сколько слов в словаре, помещённом в конце 1-й части учебника, если всего в словарях 745 слов?

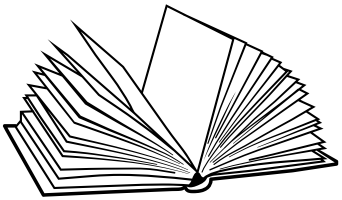

9. Реши задачу.

Для укладки пола купили 32 упаковки ламината по 7 штук в упаковке. После ремонта осталось 12 штук ламината. Сколько штук было уложено на пол?